《分數除法》2：整數 ÷ 整數（包含）

1. 1 包朱古力有 3 粒。

(a) 6 粒朱古力有多少包？

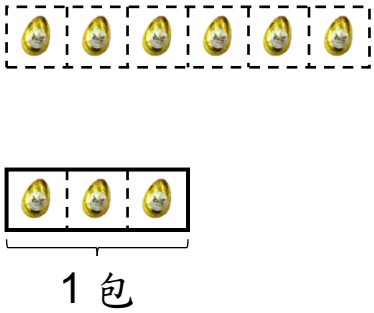

(b) 7 粒朱古力有多少包？

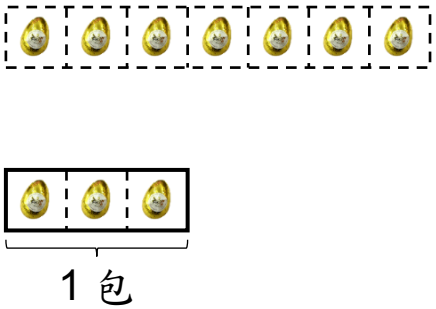

(c) 8 粒朱古力有多少包？

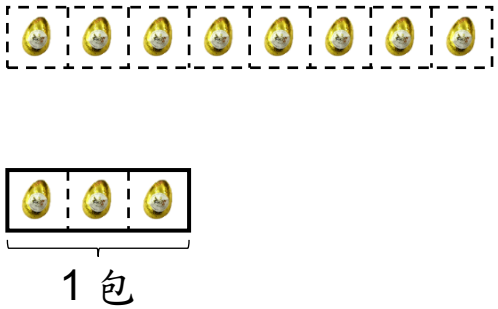

(d) 1 粒朱古力有多少包？

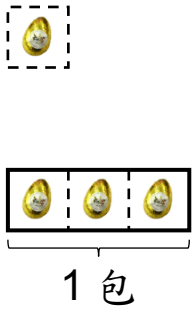

(e) 2 粒朱古力有多少包？

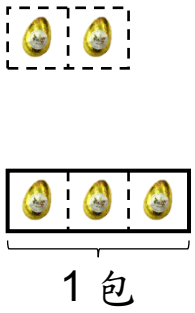

2. 1 包朱古力有 4 粒。

(a) 10 粒朱古力有多少包？



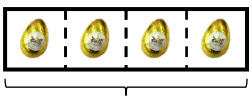

1 包

(b) 3 粒朱古力有多少包？



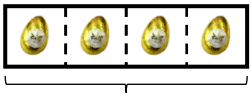

1 包

3. (a) 1 包朱古力有 5 粒。



9 粒朱古力有多少包？

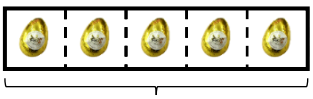

1 包

(b) 1 包朱古力有 9 粒。



5 粒朱古力有多少包？

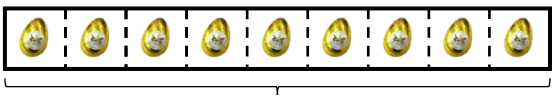

1 包

1 包物件有 a 件。

b 件物件有：

$$\square \div \square = \frac{\square}{\square} \text{（包）}$$

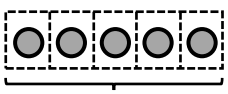

b 件

____包

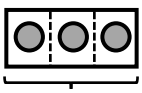

a 件

1 包