《分數乘法》：整數乘以分數

在下列各圖中，以 ▨ 表示所示月餅的數量。

1. 1 盒月餅有 ____ 個。

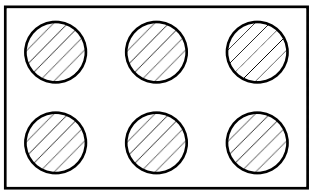

(a) 整盒月餅的 $\frac{1}{2}$ 有 ____ 個。

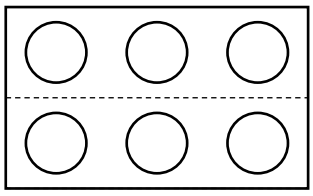

(b) 整盒月餅的 $\frac{1}{3}$ 有 ____ 個。

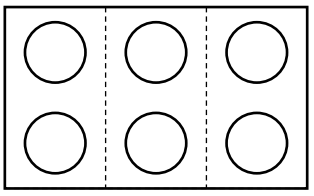

在下列各圖中，以 ▨ 表示所示月餅的數量，**<u>並列式計算</u>**。

2. 1 盒月餅有 ____ 個。

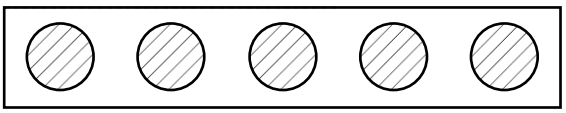

(a) 整盒月餅的 $\frac{1}{2}$ 有多少個？

方法一：

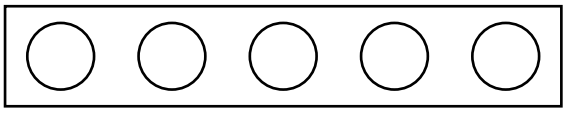

方法二：

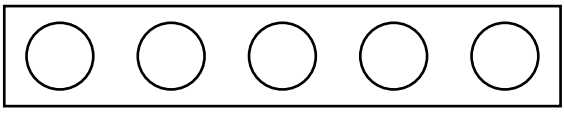

(b) 整盒月餅的 $\frac{1}{4}$ 有多少個？

方法一：

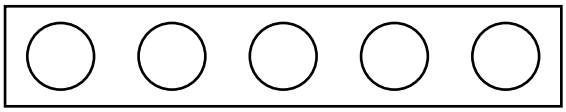

方法二：

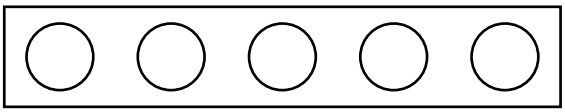

(c) 整盒月餅的 $\frac{1}{3}$ 有多少個？

方法一：

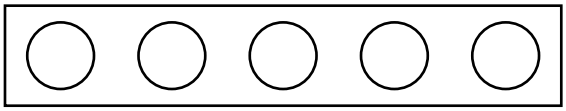

方法二：

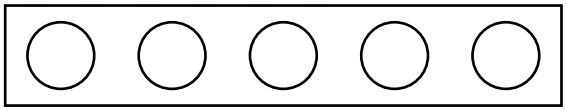

在下列各圖中，以 ▨ 表示果汁的容量，並列式計算。

3. 將全部果汁倒入量杯中。

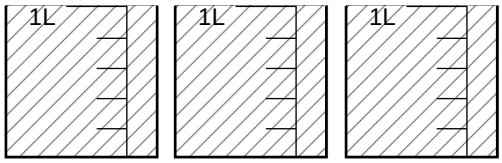

(a) 全部果汁共有____升

(b) 全部果汁的 $\frac{1}{5}$ 有多少升？

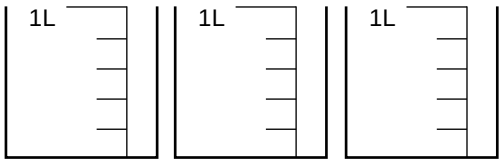

(c) 全部果汁的 $\frac{2}{5}$ 有多少升？

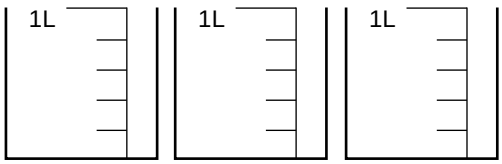

(d) 全部果汁的 $\frac{3}{5}$ 有多少升？

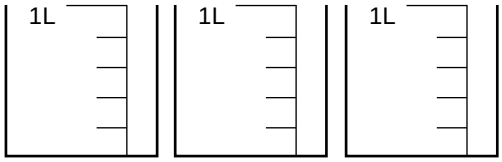

(e) 全部果汁的 $\frac{4}{5}$ 有多少升？

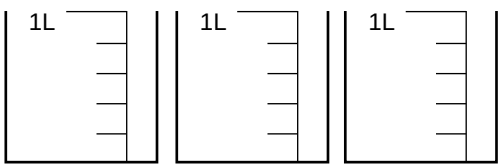

<u>想一想，說一說</u>

分數乘法除了可以計算分數的同數連加外，還可以計算甚麼？