假分數化帶分數或整數

在下列各組圖中以 ▨ 表示各假分數，並將假分數化為帶分數或整數。

1.

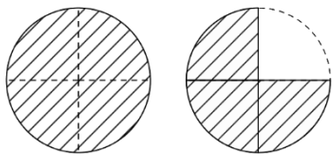

$\frac{7}{4}$ 個薄餅 = _____ 個薄餅 (以帶分數表示)

2.

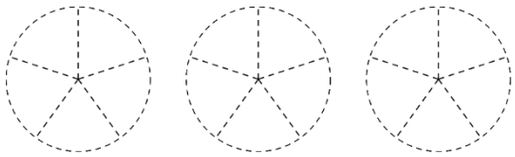

$\frac{14}{5}$ 個薄餅 = _____ 個薄餅 (以帶分數表示)

3.

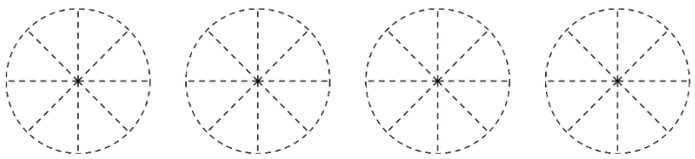

$\frac{27}{8}$ 個薄餅 = _____ 個薄餅 (以帶分數表示)

想一想

若不畫圖，如何將假分數 $\frac{20}{3}$、$\frac{54}{6}$ 和 $\frac{61}{9}$ 化為帶分數或整數？你能說出將假分數化作帶分數的方法嗎？