《分數除法》4：整數 ÷ 分數

例: 1 包果汁有 2 升。1 升果汁有多少包？

1 升果汁有：

$1 \div 2$

= ____（包）

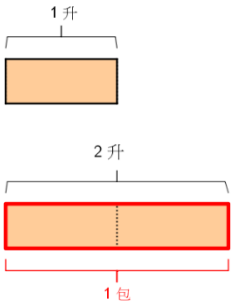

1. 1 包果汁有 $\frac{1}{2}$ 升。

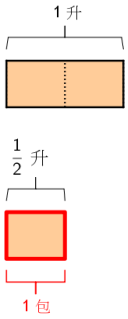

(a) 1 升果汁有：

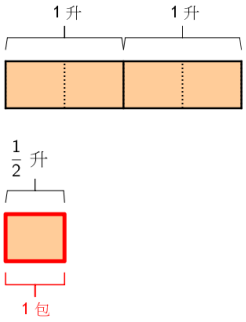

(b) 2 升果汁有：

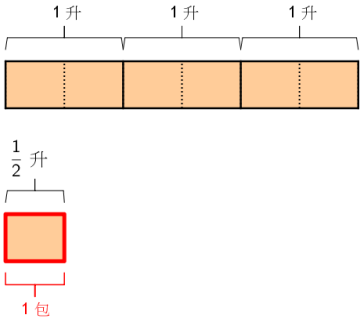

(c) 3 升果汁有：

2. 1 包果汁有 $\frac{1}{3}$ 升。

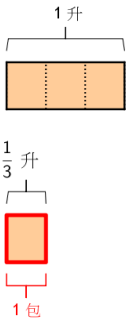

(a) 1 升果汁有：

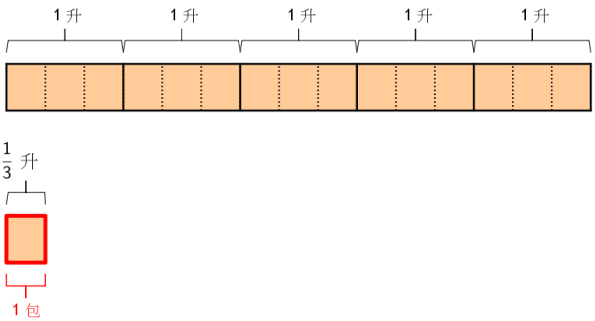

(b) 5 升果汁有：

3. 1 包果汁有 $\frac{2}{3}$ 升。

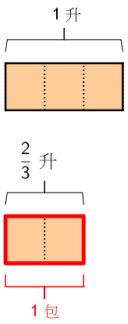

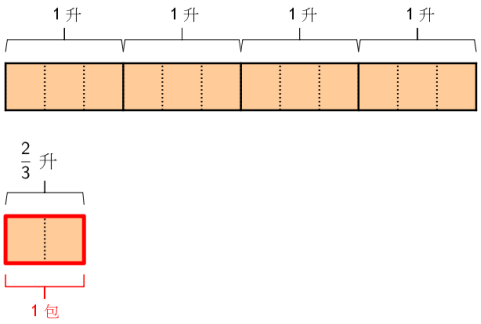

(a) 1 升果汁有：

(b) 4 升果汁有：

4. 1 包果汁有 $1\frac{1}{4}$ 升。

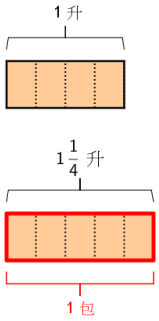

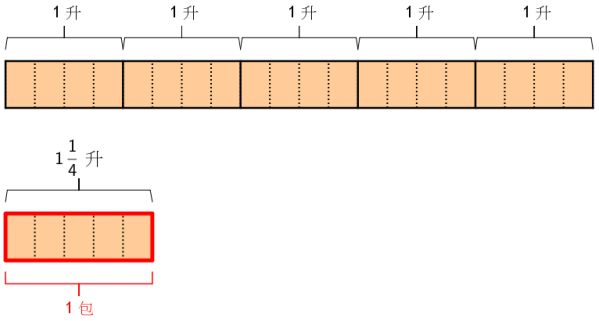

(a) 1 升果汁有：

(b) 5 升果汁有：

我們發現：

$$c \div \frac{a}{b} = c \times \frac{\square}{\square}$$