帶分數或整數化假分數

在下列各組圖中以 ▨ 表示各帶分數或整數，並將它化為假分數。

1.

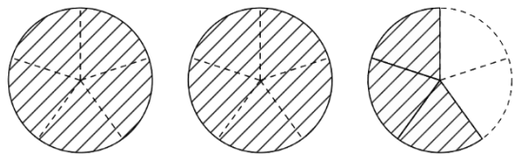

$2\frac{3}{5}$ 個薄餅 = _____ 個薄餅 (以假分數表示)

2.

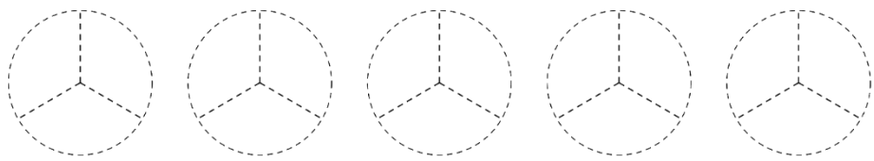

$4\frac{1}{3}$ 個薄餅 = _____ 個薄餅 (以假分數表示)

3.

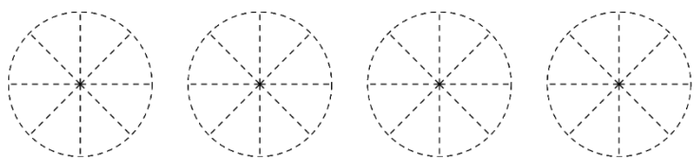

$3\frac{5}{8}$ 個薄餅 = _____ 個薄餅 (以假分數表示)

3.

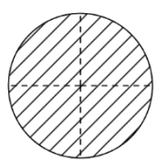

1 個薄餅 = _____ 個薄餅 (以假分數表示)

4.

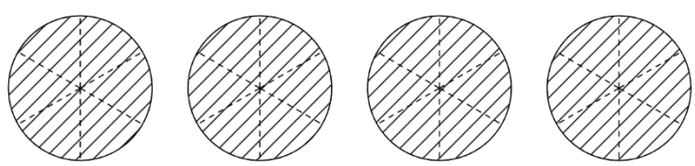

4 個薄餅 = _____ 個薄餅 (以假分數表示)

想一想：

如果沒有圖像協助，如何把帶分數 $5\frac{1}{7}$、$6\frac{8}{9}$ 化為假分數？你能說出將帶分數化假分數的方法嗎？