Actividad de Valoración

Empareja las siguientes imágenes de graficas de dos rectas con su descripción. Algunas imágenes tienen múltiples descripciones. Si no hay una imagen que corresponda con alguna descripción, ¡Dibuja una!

1.

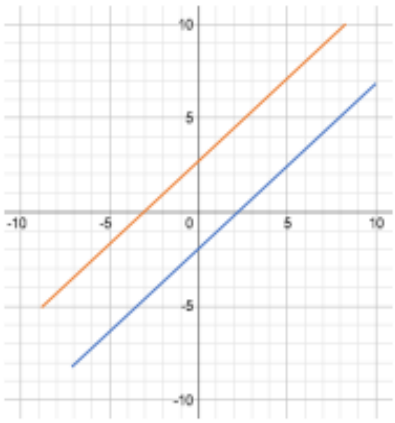

2.

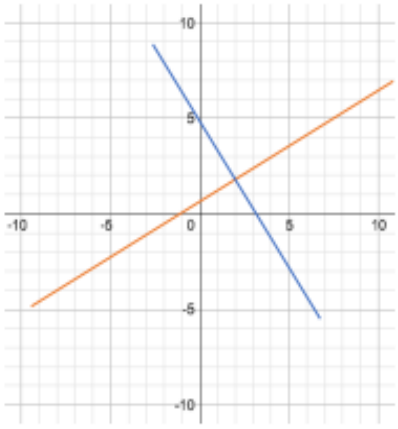

3.

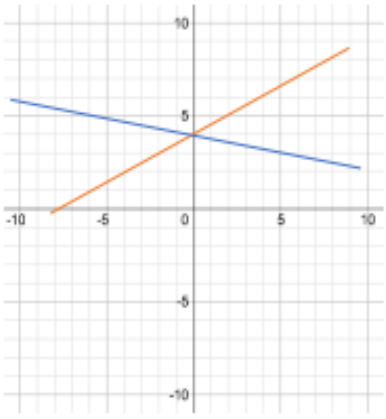

a. Las rectas tienen la misma pendiente

b. Las rectas tienen la misma intersección-y

c. Una solución

d. Infinitas soluciones

e. Sin solución

f. Las rectas tienen diferentes pendientes.